Nombre: _____ Fecha: _____

Ejercicios de graficar

1 a.

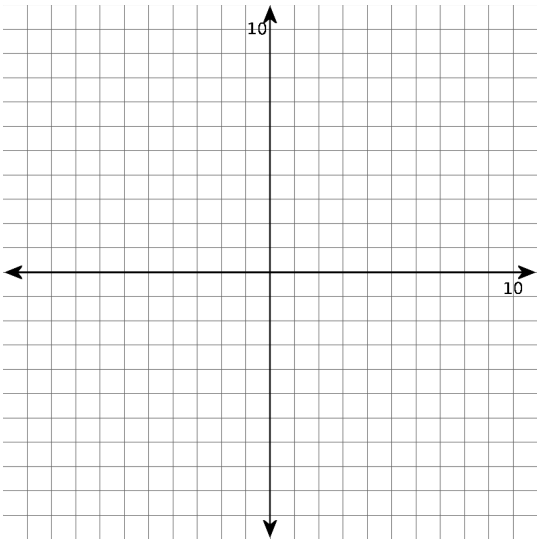

Hallar la ecuación de la recta con pendiente –6 y que pasa por el punto (–1, 3).

1 b.

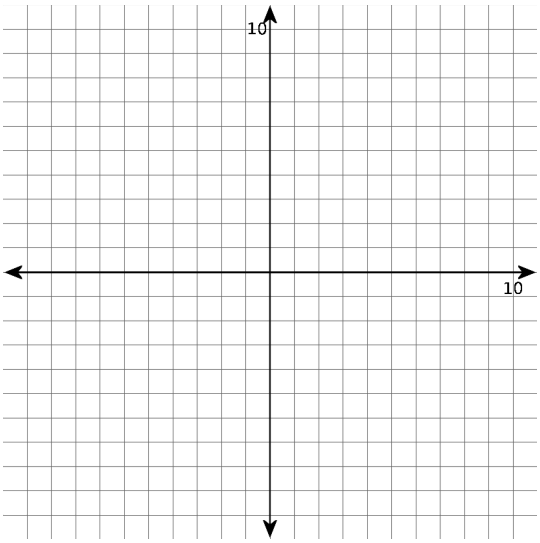

Trazar la recta que pasa por el punto (2, –3) y tenga el pendiente 0.

2 a.

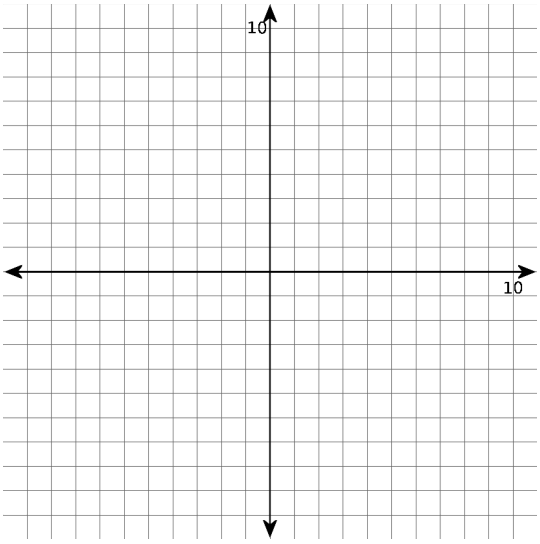

Hallar la ecuación de la recta con pendiente –6 y que pasa por el punto (1, –5).

2 b.

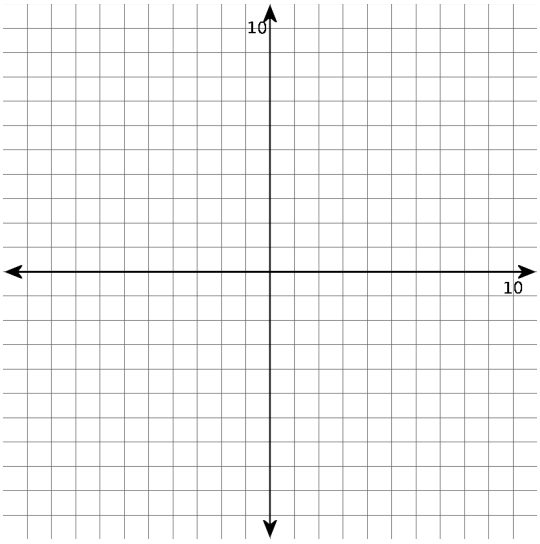

Trazar la recta que pasa por el punto (1, 3) y tenga el pendiente –6.

Copyright Maria Miller - www.MamutMatematicas.com/ejercicios ***Autorización de copias:*** *Se permite realizar un número ilimitado de copias de esta hoja para las tareas de matemáticas de los estudiantes. No se permite distribuir esta hoja en páginas web, libros o similares sin la autorización de la autora.*

Nombre: _____ **Fecha:** _____

Clave

1 a.

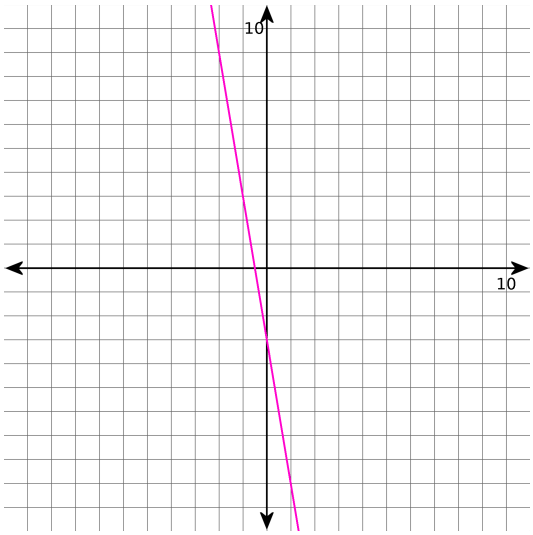

$y = -6x - 3$

1 b.

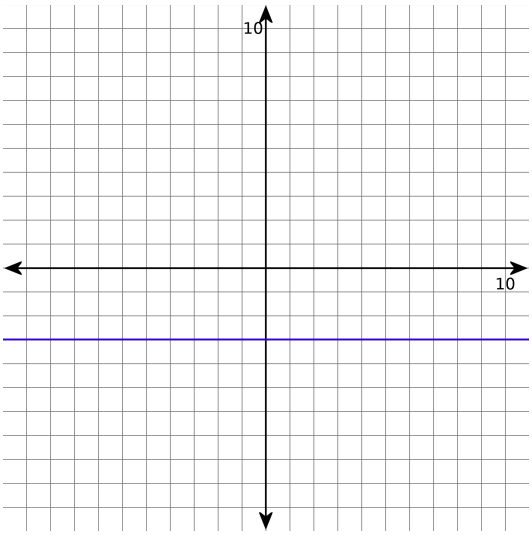

2 a.

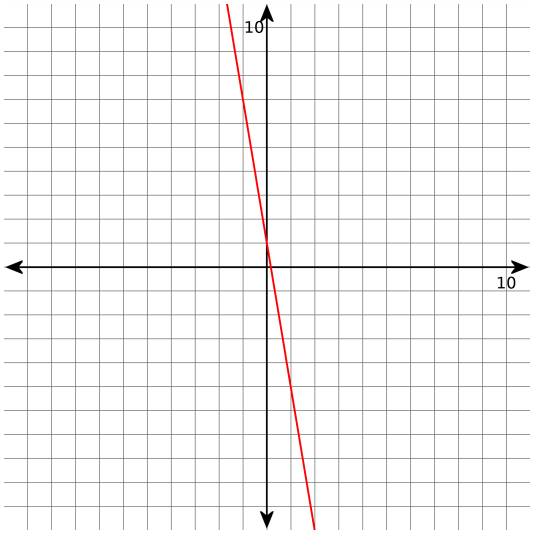

$y = -6x + 1$

2 b.

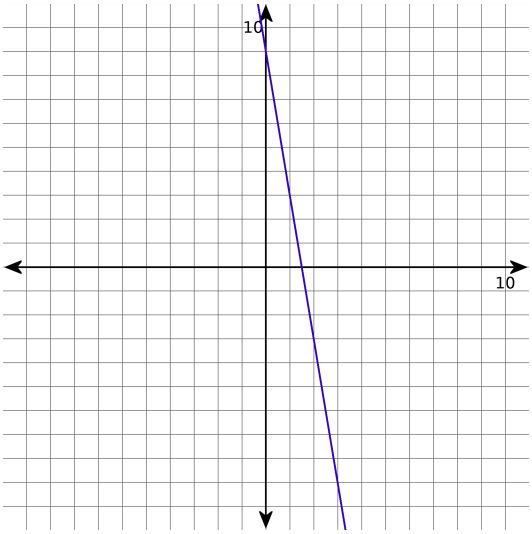

Copyright Maria Miller - www.MamutMatematicas.com/ejercicios ***Autorización de copias:*** *Se permite realizar un número ilimitado de copias de esta hoja para las tareas de matemáticas de los estudiantes. No se permite distribuir esta hoja en páginas web, libros o similares sin la autorización de la autora.*